Time: 10 Minutes **Paper Math 5** **Total Marks: 10**

5th Month, 4th Week, 4th Day	**Syllabus:Unit 7: Review** Exercise Q # 11, 12

Q.No.1. Encircle the figure having rotational symmetry. Also write the order of their rotation and mark their centre of rotation: (10)

سوال نمبر1: اُن اشکال پر دائرہ لگائیں جن میں روٹیشنل سمٹری پائی جاتی ہے۔روٹیشن کا آرڈر اور روٹیشن کا مرکز بھی واضح کریں:

سوال نمبر2: اس شکل کو دائرہ لگائیں جس میں ریفلیکٹو سمٹری ہے۔اُن کی لائن آف سمٹری میں بنائیں:

(a)



(b)

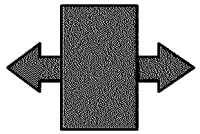

(c)



(d)



1

Time: 10 Minutes **Paper Math 5** **Total Marks: 10**

5th Month, 4th Week, 4th Day	**Syllabus:Unit 7: Review** Exercise Q # 11, 12

Q.No.1. Encircle the figure having rotational symmetry. Also write the order of their rotation and mark their centre of rotation: (10)

سوال نمبر1: اُن اشکال پر دائرہ لگائیں جن میں روٹیشنل سمٹری پائی جاتی ہے۔روٹیشن کا آرڈر اور روٹیشن کا مرکز بھی واضح کریں:

سوال نمبر2: اس شکل کو دائرہ لگائیں جس میں ریفلیکٹو سمٹری ہے۔اُن کی لائن آف سمٹری میں بنائیں:

(a)



(b)

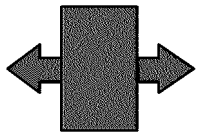

(c)



(d)